¡Patrones en las tablas!

Los cuadros de una cuadrícula de 10 por 10 ("rejilla de a 10") se numeraron comenzando con la esquina izquierda superior y se marcaron los números de varias tablas de multiplicar. Abajo mostramos el patrón de la tabla del 5, el de la del 9 y el de la del ...





Algunas tablas crean líneas verticales, algunas crean diagonales y algunos patrones aparecen por toda la rejilla. ¿Qué números recorre cada tipo de patrón y por qué?

Ahora investigaremos rejillas de otros tamaños como estas






En estas rejillas se escriben los números de forma ordenada (por ejemplo del 1 al 7x7 =49) y se usan las tablas de multiplicar para iluminar los patrones. ¿Cuáles tablas crearon los patrones de arriba?

Aquí hay algunas partes de varios patrones. ¿Puedes identificar cuáles tablas se pueden usar para formar las figuras y de qué tamaño es la rejilla?

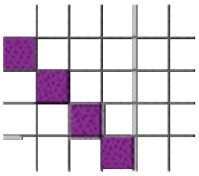
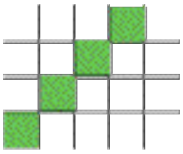
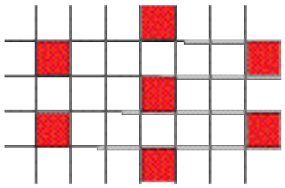
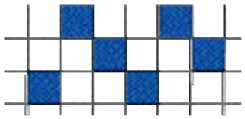
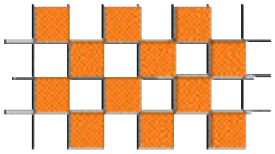

Puede haber más de una respuesta.